INSTRUÇÕES PSS 2018

01 - Material a ser utilizado: caneta esferográfica azul ou preta, lápis e borracha. Os objetos restantes devem ser colocados em local indicado pelo fiscal da sala, inclusive **aparelho celular desligado,** bip e outros aparelhos eletrônicos.

02 -. Não é permitido ao candidato ingressar na sala de provas sem a respectiva identificação (RG ou outro documento oficial com foto).

03 - A duração da prova é de 02 (duas) horas, já incluindo o tempo destinado à entrega do Caderno de Provas e à identificação – que será feita no decorrer da prova – e ao preenchimento da Folha de Respostas (Gabarito).

04 - Durante a prova, o candidato não deve levantar-se, comunicar-se com outros candidatos e nem fumar. Somente em caso de urgência pedir ao fiscal para ir ao sanitário, devendo no percurso permanecer absolutamente calado. Ao sair da sala no término da prova, o candidato não poderá permanecer no estabelecimento onde estão sendo realizadas as provas.

05 - O Caderno de Provas consta de 20 (vinte) questões de múltipla escolha **com 05 (cinco) opções (A a E) e uma única resposta correta. Leia-o atentamente**.

06 - Ao receber o material de realização das provas, o candidato deverá conferir atentamente se o Caderno de Provas corresponde ao cargo a que está concorrendo, observando o nome do cargo na parte superior da primeira página, bem como se os dados constantes na Folha de Respostas (Gabarito) que lhe foi fornecido estão corretos. Caso os dados estejam incorretos, ou o material esteja incompleto ou tenha qualquer imperfeição, o candidato deverá informar tal ocorrência ao fiscal.

07. Ao concluir a prova, o candidato deverá permanecer em seu lugar e comunicar ao aplicador de prova, aguardando autorização para entregar a Folha de resposta, a qual deverá preencher com seu nome completo, RG, nº da inscrição e assinar no local indicado.

08 - Os fiscais não estão autorizados a emitir opinião e prestar esclarecimentos sobre o conteúdo das provas. Cabe única e exclusivamente ao candidato interpretar e decidir.

09 - O candidato poderá retirar-se do local de provas somente a partir dos 30 (trinta) minutos, após o início de sua realização, não podendo levar consigo o Caderno de Provas.

10 – Os dois últimos candidatos de cada sala deverão assinar o envelope lacrado juntamente com o fiscal de sala.

Se desejar anote as respostas no quadro abaixo e leve-o consigo

RESPOSTA			
01	**06**	**11**	**16**
02	**07**	**12**	**17**
03	**08**	**13**	**18**
04	**09**	**14**	**19**
05	**10**	**15**	**20**

EDUCADOR INFANTIL

Língua Portuguesa

1) Leia o fragmento do conto de abertura de Relíquias da casa velha, "Pai contra mãe" de Machado de Assis:
"A escravidão levou consigo ofícios e aparelhos, como terá sucedido a outras instituições sociais. Não cito alguns aparelhos senão por se ligarem a certo ofício. Um deles era o ferro ao pescoço, outro o ferro ao pé; havia também máscara de folha-de-flandres. A máscara fazia perder o vício da embriaguez aos escravos, por lhes tapar a boca. Tinha só três buracos, dois para ver, um para respirar; e era fechada atrás da cabeça por um cadeado. Com o vício de beber; perdiam a tentação de furtar; porque geralmente era dos vinténs do senhor que eles tiravam com que matar a sede, e aí ficavam dois pecados extintos, e a sobriedade e a honestidade certas. Era grotesca tal máscara, mas a ordem social e humana nem sempre se alcança sem o grotesco, e alguma vez o cruel. Os funileiros as tinham penduradas, à venda, na porta das lojas".
Considere as seguintes afirmações sobre o fragmento e assinale a alternativa **correta**.

I – O discurso é de caráter dissertativo. O enunciador mostra-se favorável à instituição da escravidão.
II – O discurso mescla elementos narrativos e descritivos, mas não há sinais de discurso dissertativo, pois o enunciador mostra-se neutro quanto ao tema da a abolição da escravatura.
III – O discurso dissertativo vale-se da descrição e, em menor escala, da narração para denunciar a escravidão como uma instituição que degrada o ser humano escravizado e também a sociedade escravocrata.

(A) apenas a afirmação I está correta.
(B) apenas a afirmação II está correta.
(C) apenas a afirmação III está correta.
(D) estão corretas as afirmações I e II.
(E) estão corretas as afirmações II e III.

2) Assinale a alternativa que completa, **corretamente**, a frase:
"Era para _____ falar _____ ontem, mas não _____ localizei em parte em parte alguma".

(A) mim, comigo, o
(B) eu, com ele, lhe
(C) mim, consigo, lhe
(D) mim, contigo, te
(E) eu, com ele, o

3) Assinale a alternativa em que **não haja erro** de ortografia.
(A)Espero que vocês viajem bem.
(B) Uma falsa meiguice encobria-lhe a falta de compreenção.
(C) A lage daquela casa não é muito resistente.
(D) Não fui visitar minha sobrinha, pois ela está com cachumba.
(E) O ladrão passou só três meses no xadrês.

4) Todas as concordâncias nominais estão corretas, **exceto** em:
(A) Ela estava meia preocupada com a notícia recebida.
(B) Escolhemos má hora e lugar para a festa.
(C) A justiça declarou culpados o réu e a ré.
(D) A moça usava uma blusa verde-clara.
(E) Estou quite com meus compromissos.

5) Assinale a alternativa que completa **corretamente** o período:
"_____ de exigências! Ou será que não _____ os sacrifícios que _____ por sua causa?"

(A) Chega – bastam – foi feito.
(B) Chega – basta – foi feito.
(C) Chega – bastam – foram feitos.
(D) Chegam – basta – foram feitos.
(E) Chegam – bastam – foi feito.

Matemática

6) Em uma academia que possui 400 alunos foi realizada uma entrevista a respeito do esporte favorito de cada um deles. Observe o gráfico abaixo que demonstra a distribuição das respostas obtidas. Todos os alunos escolheram apenas um dos quatro esportes. Quantos alunos escolheram futebol?

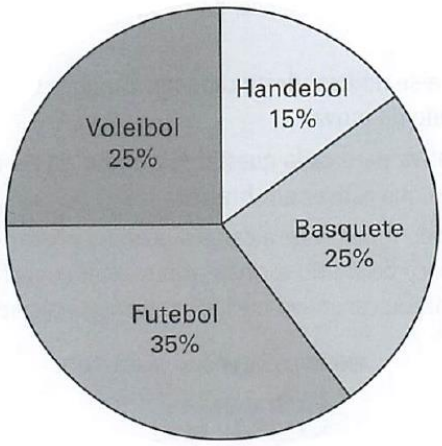

(A) 35
(B) 100
(C) 140
(D) 170
(E) 150

7) Em uma empresa que fornece transporte aos funcionários, apenas 6/8 dos funcionários fazem uso dele. Os demais vão sozinhos ou com algum colega de trabalho. Nessa empresa, qual é a porcentagem de funcionários que utilizam o transporte ofertado por ela?
(A) 60 %
(B) 75 %
(C) 78 %
(D) 80 %
(E) 55 %

8) A figura abaixo mostra a vista superior de um depósito retangular onde foram arrumadas 15 mesas idênticas de base circular. Se o raio da base de cada mesa mede 40 cm, quanto mede o maior lado do depósito?



(A) 2 m
(B) 3,5 m
(C) 4,5 m
(D) 3 m
(E) 4 m

9) Uma família fez uma cotação de preços para trocar o portão de casa. Na empresa em que encontraram o menor preço, o valor é cobrado de acordo com a área ocupada pelo portão. Essa empresa cobra R$ 350,00 por metro quadrado do portão. Na figura abaixo, temos o portão adquirido pela família, cuja largura mede 3 m e a altura mede 4 m.



Nessas condições quanto essa família pagou pelo portão?
(A) R$ 1 050,00
(B) R$ 1 400,00
(C) R$ 2 450,00
(D) R$ 4 200,00
(E) R$ 4 250,00

10) Um pedreiro está colocando pisos em um área retangular. Sabendo que ele demorou 2 horas e 6 minutos para colocar 21 azulejos mostrados na figura, quantos minutos ele vai demorar para terminar essa obra, se continuar no mesmo ritmo de trabalho?



(A) 15 min
(B) 45 min
(C) 50 min
(D) 60 min
(E) 66 min

Conhecimento Específico

11) A L.D.B. 9394/96 em seu artigo 21 afirma que a educação escolar **compõe-se de:**
(A) Educação Fundamental, Ensino Médio e Educação Superior.
(B) Creches, Ensino Fundamental, e Educação Superior.
(C) Educação Infantil, Educação Jovens e Adultos e Educação Superior.
(D) Educação Básica (Educação Infantil, Ensino Fundamental e Ensino Médio) e Educação Superior.
(E) Ensino Fundamental, Ensino Médio e Ensino de Pós Graduação.

12) São funções do professor de Educação Infantil. **Exceto:**
(A) Cuidar da higiene, administrar e acompanhar a alimentação das crianças.
(B) Organizar e permanecer com as crianças na hora do repouso.
(C) Elaborar relatórios periódicos sobre atividades desenvolvidas.
(D) Preparar material didáticos adequado às atividades a serem desenvolvidas.
(E) Convocar e presidir reuniões com Conselho escolar.

13) A organização de grupos infantis deve respeitar as condições concretas de desenvolvimento das crianças e suas singularidades, bem como os espaços físicos, equipamentos e materiais pedagógicos existente na escola, tendo como parâmetro a seguinte relação professor/criança. Assinale **(F) falso e (V) verdadeiro.**

I- do nascimento a um ano de idade – até seis crianças por professor.

II- de um a dois anos de idade – até oito crianças por professor.
III- de dois a três anos de idade - até doze crianças por professor.
IV- de três a quarto anos de idade – até quinze crianças por professor.
V- de quarto e cinco anos de idade – até vinte crianças por professor.

(A) V.V.F.F.V
(B) F.F.V.V.F
(C) V.V.V.V.V
(D) V.F.V.F.V
(E) F.F.F.F.F
.

14) A Lei de Diretrizes Curriculares Nacionais para a Educação Infantil, estabelece que a proposta pedagógica para essa etapa de ensino deve respeitar determinados princípios, sendo **correto:**
(A) Ecológico, Ético e Político.
(B) Ético, Político e Estético.
(C) Político, Estético e da Individualidade.
(D) Da Individualidade, do Consumo Consciente.
(E) Estético, da Individualidade e do Consumo Consciente.

15) As práticas pedagógicas da Educação Infantil tem como **eixos norteadores:**
(A) Individualismo e o Egocentrismo
(B) A memorização e Brincadeiras livres
(C) Práticas Pedagógicas e Individualismo
(D) Práticas Pedagógicas Homogêneas
(E) Interações e Brincadeiras

16) Sobre a avaliação na Educação Infantil é **correto afirmar**:
(A) É fundamental garantir a retenção das crianças na Educação Infantil que apresentarem dificuldades.
(B) A avaliação deve ter um modelo de controle e julgamento das crianças.
(C) As instituições devem criar procedimentos para avaliar o desenvolvimento das crianças sem objetivo de seleção, promoção ou classificação.
(D) A avaliação deverá ser classificatória.
(E) A avaliação da aprendizagem e do desenvolvimento da criança precisa, ser um processo investigativo que busque apenas constatação e sentença.

17) O Projeto Político Pedagógico das instituições que ofertam Educação Infantil deve ter como objetivo, **exceto:**
(A) Renovação e articulação de conhecimentos e aprendizagens de diferentes linguagens.
(B) Conceber o jogo e o brinquedo como formas de aprendizagens a serem utilizados com a criança.
(C) O direito a proteção à saúde, à liberdade e a não interação com outras crianças.
(D) Promover ações de respeito à cidadania e ao bem comum.
(E) Valorizar a criatividade e a imaginação.

18) De acordo com a Deliberação 02/14 CEE/PR, a matrícula é obrigatória para todas as crianças a partir da **seguinte faixa etária.**
(A) 02 anos de idade
(B) 06 meses de idade
(C) 04 anos de idade
(D) 01 ano de idade
(E) 05 anos de idade

19) A educação Infantil deve pautar-se pelo binômio:
(A) Socializar e Cuidar
(B) Alfabetizar e Educar
(C) Integrar e Alfabetizar
(D) Cuidar e Educar
(E) Socializar e Alfabetizar

20) Assinale (V) Verdadeiro ou (F) Falso. **São objetivos da Educação:**

I- Respeitar os direitos individuais da criança;
II- Considerar as condições afetivas das crianças;
III- Respeitar as diversidades de expressões culturais;
IV- Promover a oportunidade para o desenvolvimento físico;
V- Cumprir com as funções indispensáveis e indissociáveis de educar e cuidar.

(A) Todas são falsas
(B) I e II são verdadeiras
(C) I, II e III são verdadeiras
(D) IV e V são falsas
(E) Todas são verdadeiras

GABARITO PSS – EDUCADOR INFANTIL- 2/2018

	QUESTÕES	A	B	C	D	E
Língua Portuguesa	01	O	O	O	O	O
	02	O	O	O	O	O
	03	O	O	O	O	O
	04	O	O	O	O	O
	05	O	O	O	O	O
Matemática	06	O	O	O	O	O
	07	O	O	O	O	O
	08	O	O	O	O	O
	09	O	O	O	O	O
	10	O	O	O	O	O
Conhecimento Específico	11	O	O	O	O	O
	12	O	O	O	O	O
	13	O	O	O	O	O
	14	O	O	O	O	O
	15	O	O	O	O	O
	16	O	O	O	O	O
	17	O	O	O	O	O
	18	O	O	O	O	O
	19	O	O	O	O	O
	20	O	O	O	O	O

_____
Nome Completo

_____
RG

_____
Nº inscrição

_____
Assinatura